Aufgabe 1

a) Wie viel Geld hat jeder? Notiere den passenden Geldbetrag.

Tim € ct	Tom € ct	Tine
Manuela	Maurice	Max

b) Wie kann es in der Geldbörse aussehen?
Zeichen eine Möglichkeit, welche Münzen und Scheine den angegebenen Betrag ergeben. Verwende möglichst wenige Scheine und Münzen.

 **33 € 33 ct**	**157 € 80 ct**	**303 € 67 ct**
 **458,08 €**	 **1000,10 €**	**0,99 €**